සියළුම හිමිකම් ඇවිරිණි]
All Rights Reserved]

පාසල් වලට සිසුන් තොරා ගැනීමට සහ ශිෂ්‍යත්ව ප්‍රදානය කිරීම සඳහා පැවැත්වෙන විභාගය

I පත්‍රය

නැණ ලොවට පා නඟන හපනුන්ට මඟ කියන

"අදිති"

11

පැය 01 යි

විභාග අංකය ....

විභාගයට පෙනී සිටින ඔබ සඳහා උපදෙස්

- ඔබේ විභාග අංකය ඉහත කොටුව තුළ ඇති තිත් ඉර මත ලියන්න.
- තුන්වැනි පිටුවේ ඇති නියමිත ස්ථානයේද ඔබේ විභාග අංකය ලියන්න.
- මෙම ප්‍රශ්න පත්‍රයේ ප්‍රශ්න 40 ක් ඇත ප්‍රශ්න සියල්ලටම පිළිතුරු මෙම ප්‍රශ්න පත්‍රයේම ලියන්න.
- කටුවැඩ කිරීම සඳහා කඩදාසියක් සපයනු ලැබේ.

පිටු අංකය	ලැබූ ලකුණු
1	
2	
3	
4	
5	
6	
7	
8	
එකතුව	
අවසාන ලකුණ	
ඉලක්කමෙන්	
අකුරෙන්	

	කෙටි අත්සන හා සංකේත අංකය
පළමු පරීක්ෂක ලකුණු දීමේ පටිපාටිය අනුව උත්තර පත්‍රය ඇගයීම් කළ බව සහතික කරමි.	V/I/S
දෙවන පරීක්ෂක පළමු පරීක්ෂක කර ඇති ඇගයීම් නිවැරදි බව සහතික කරමි.	V/I/S
ඇගයීම් ලකුණු තහවුරු කිරීමේ පරීක්ෂක ඇගයීම් කර ප්‍රදානය කළ ලකුණු සහ අවසාන ලකුණ නිවැරදි බව තහවුරු කරමි.	V/I/S/EMF
ප්‍රධාන පරීක්ෂක අධීක්ෂණය කළෙමි. අවසාන ලකුණ නිවැරදිය.	V/I/S/CH

ප්‍රශ්න සියල්ලට ම පිළිතුරු සපයන්න.

- මුලින් දී ඇති රූපයට සමාන රූපය තෝරන්න.

01.

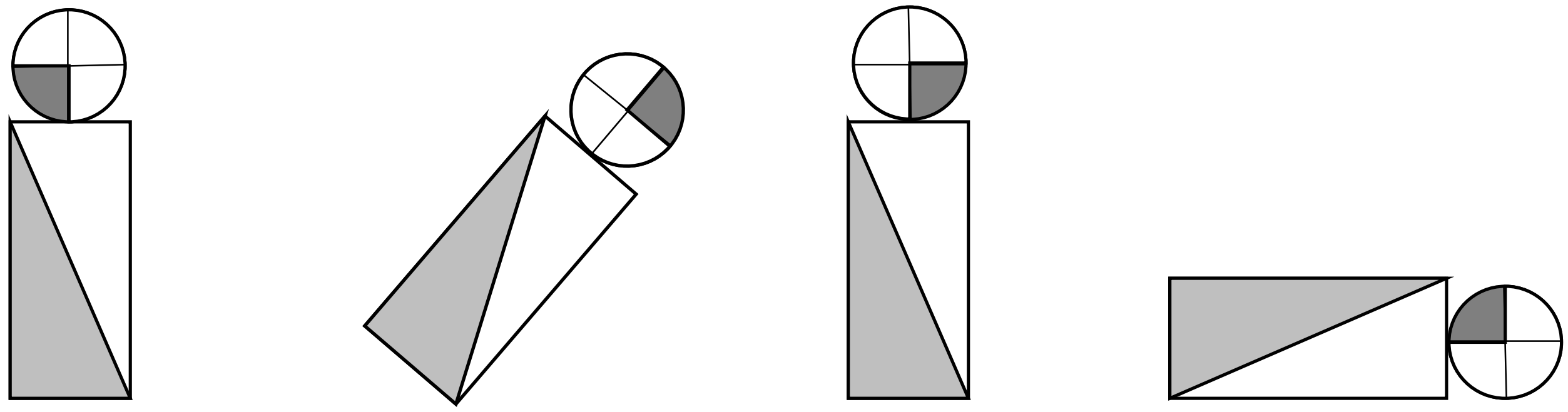

1 2 3

02.

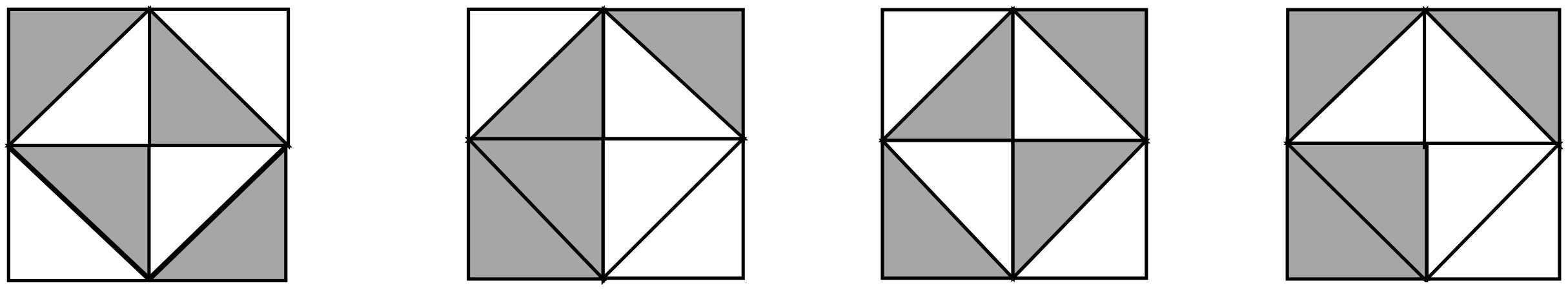

1 2 3

- හිස්තැනට සුදුසු වචනය තෝරන්න.

03. කළය - වතුර නම් කිල්ලෝටය – ……………………..

1. බුලත් 2. පුවක් 3. හුණු

04. පාසල - පන්ති කාමරය නම් රෝහල – ……………………..

1. ශල්‍යාගාරය 2. වාට්ටුව 3. ඇඳ

- 05 සහ 06 රූපවල හිස් කොටුවට අදාළ පිළිතුරු තෝරා යටින් ඉරක් අඳින්න.

05.

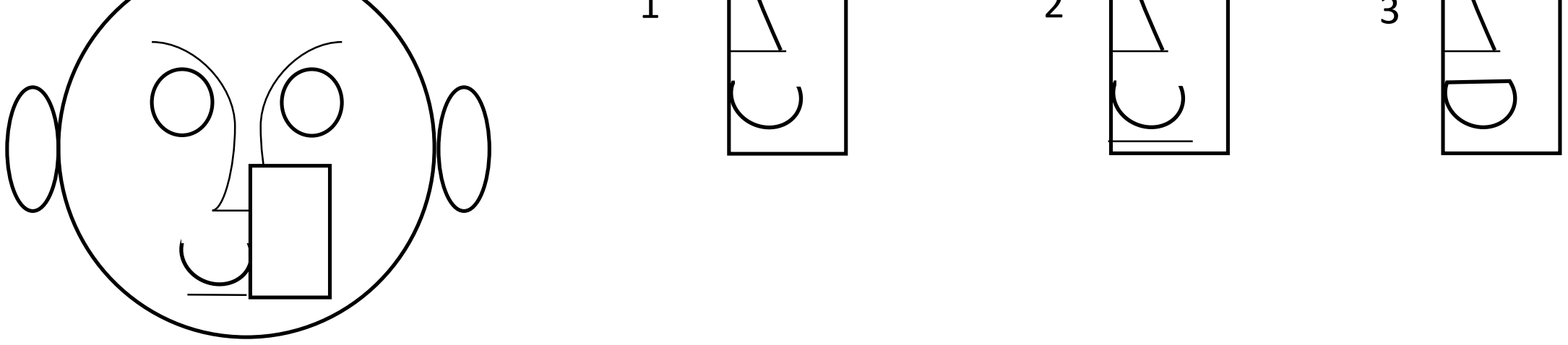

1 2 3

06. 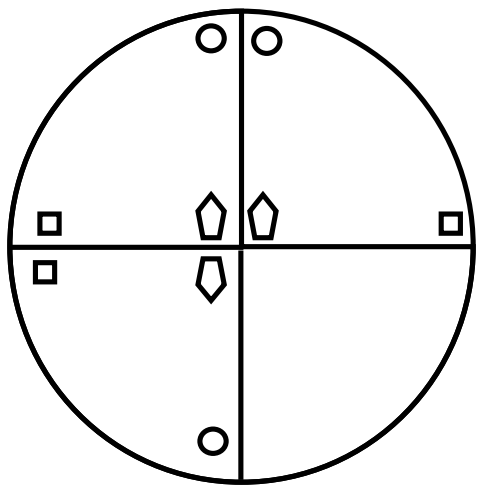

1 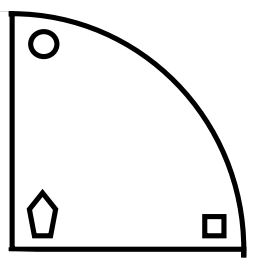

2 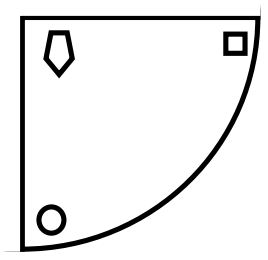

3 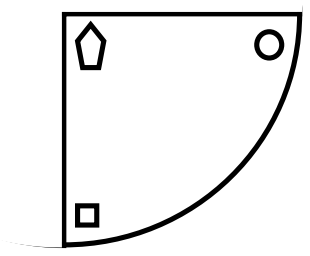

07. දී ඇති රූපවලින් සිරස් රේඛා පමණක් ඇති පිළිතුර වන්නේ,

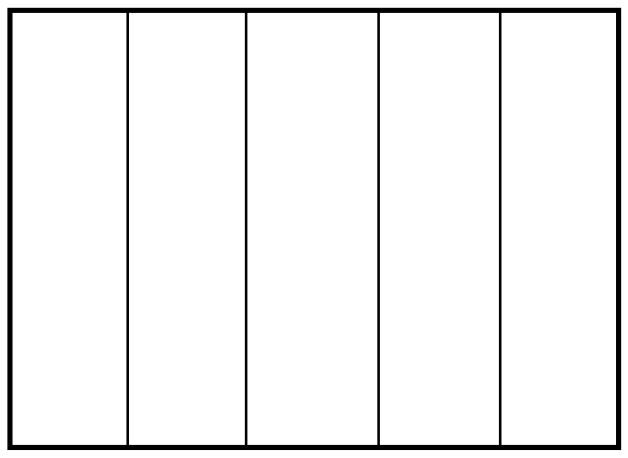

1

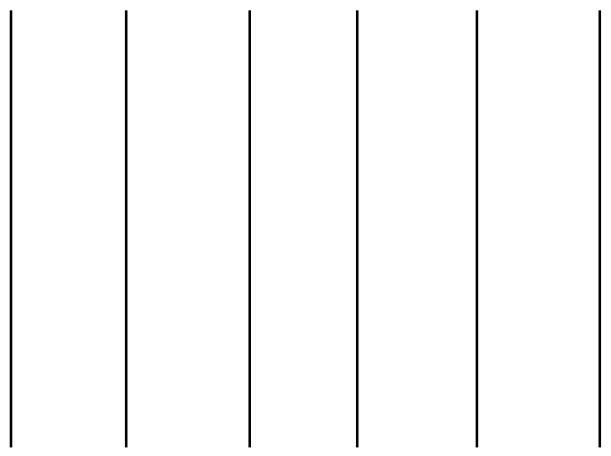

2

3

08. පැන එසවීමක් නොකර එක් රේඛාවක් මත නැවත වරක් පැන ගෙන නොයා ඇඳිය හැකි රූපය වන්නේ



1

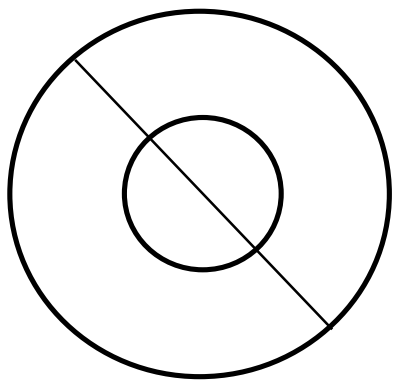

2

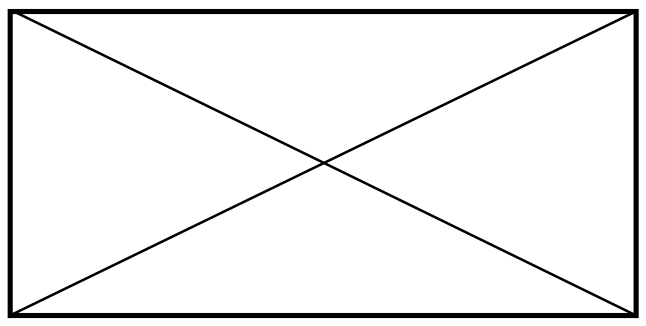

3

09. මුලින් දැක්වෙන රූප දෙක එකතු කළ විට ලැබෙන රූපය යටින් ඉරක් අඳින්න.

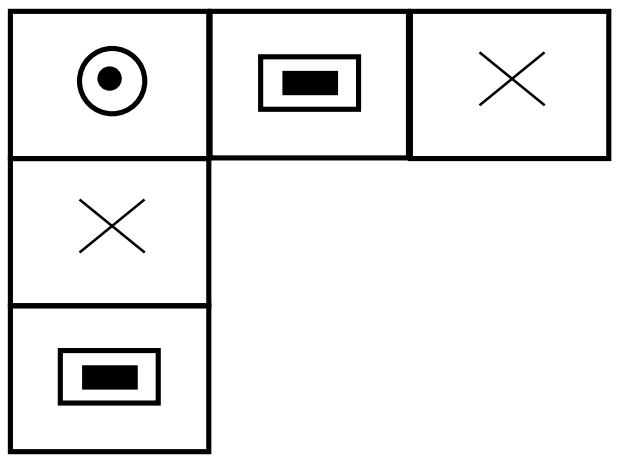

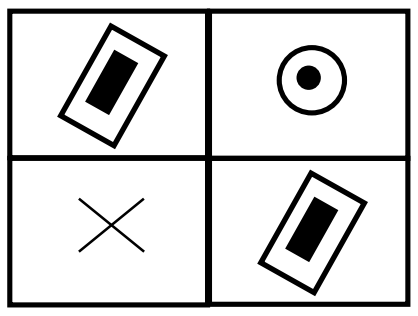

1 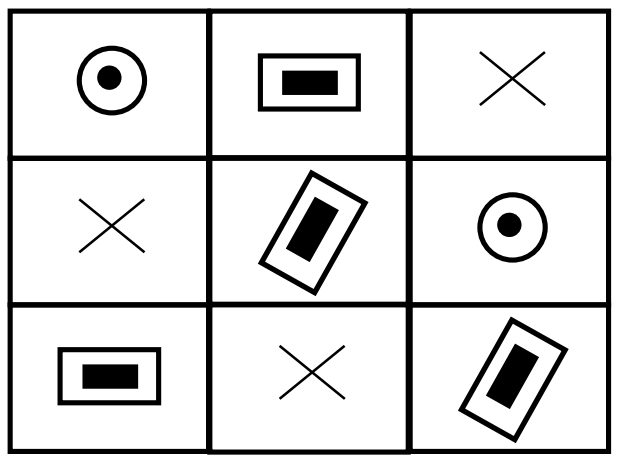

2 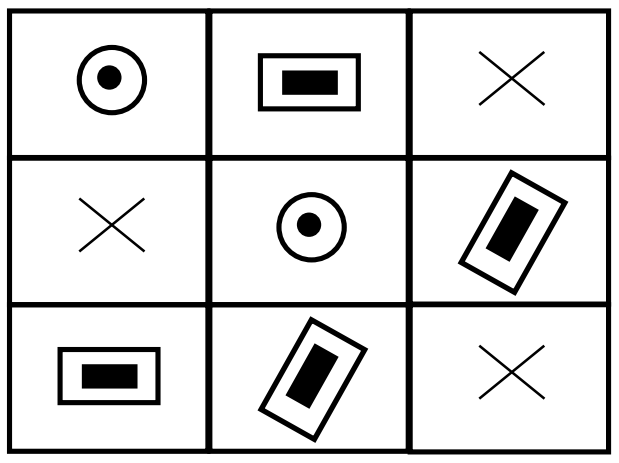

3 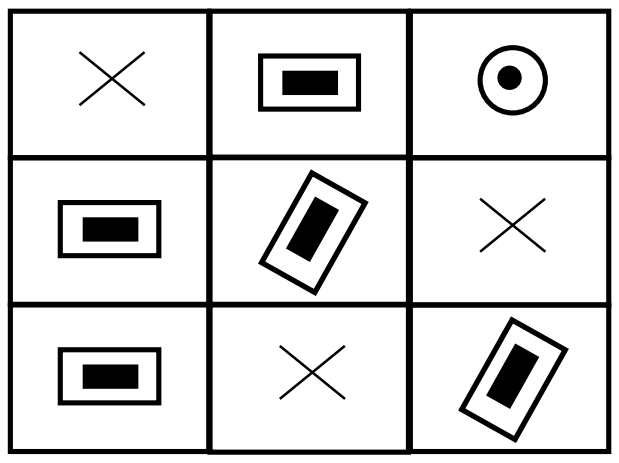

- රටාවක් ගොඩනැගෙන ආකාරයට හිස්තැනට ගැළපෙන පිළිතුර වන්නේ,

10.

9	12	15
6	3	18
….	24	21

1. 28 2. 30 3. 27

11.

8	…..	16
28	24	20
32	36	40

1. 14 2. 12 3. 22

12. රූපයේ අඳුරු කර ඇති කොටස මුළු රූපයෙන් කිනම් භාගයක් ද?

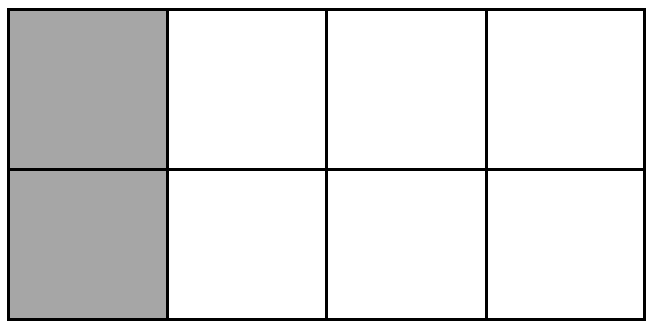

1. $\frac{4}{8}$
2. $\frac{1}{4}$
3. $\frac{2}{16}$

13. මෙම රූපයෙන් නිරූපණය කළ හැකි ඍජුකෝණාස්‍ර ගණන වනුයේ ,



1. 10 2. 9 3. 8

14. ප.ව 5.00 ට පමණ මා ගෙදර එන විට මාගේ සෙවණැල්ල මාගේ වම් අත පැත්තට වැටී තිබුණි නම්, මා ගමන් කළ දිශාව කුමක් ද ?

1. නැගෙනහිර දිශාව 2. උතුරු දිශාව 3. දකුණු දිශාව

15. මගේ සාක්කුවේ වර්ග තුනකින් කාසි 9ක් තිබේ. ඒවායේ එකතුව රුපියල් 23කි. සාක්කුවේ තිබෙන කාසි මොනවා ද ?

1. රුපියල් පහේ කාසි 2 යි. රුපියල් දෙකේ කාසි 4 යි. රුපියලේ කාසි 3 යි.
2. රුපියල් පහේ කාසි 3 යි. රුපියල් දෙකේ කාසි 2 යි. රුපියලේ කාසි 4 යි.
3. රුපියල් පහේ කාසි 3 යි. රුපියල් දෙකේ කාසි 2 යි. රුපියලේ කාසි 3 යි.

16. නිමල්ගේ වයස අවුරුදු 8 කි. ඔහුගේ පියා ඔහුගේ වයස මෙන් සිව් ගුණයකට වඩා අවුරුදු පහක් වැඩිමහල් ය. එසේ නම් දෙදෙනාගේ වයස්වල එකතුව කීය ද ?

1. අවුරුදු 27 කි. 2. අවුරුදු 37 කි. 3. අවුරුදු 45 කි.

17. පළාත, කලාපය, කොට්ඨාසය, පාසල යන ඒවායේ සම්බන්ධය පහත සටහනින් දැක්වේ. ඒ අනුව කොට්ඨාසය දැක්වෙනුයේ,

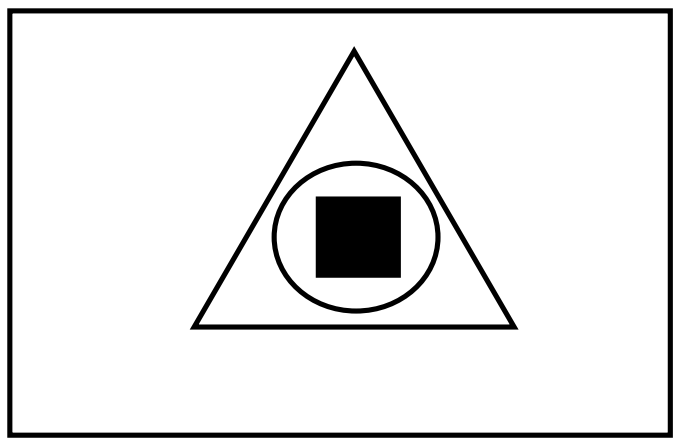

1.  2. 3. 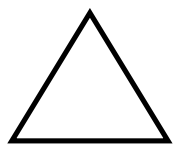

18. බල්බ වැලක රතු, කහ, නිල් යන පිළිවෙළකට බල්බ අමුණා ඇත. 62 වැනි බල්බයේ වර්ණය වනුයේ,

1. නිල් 2. රතු 3. කහ

19. මෙම රූපයේ පරිමිතිය සොයන්න.

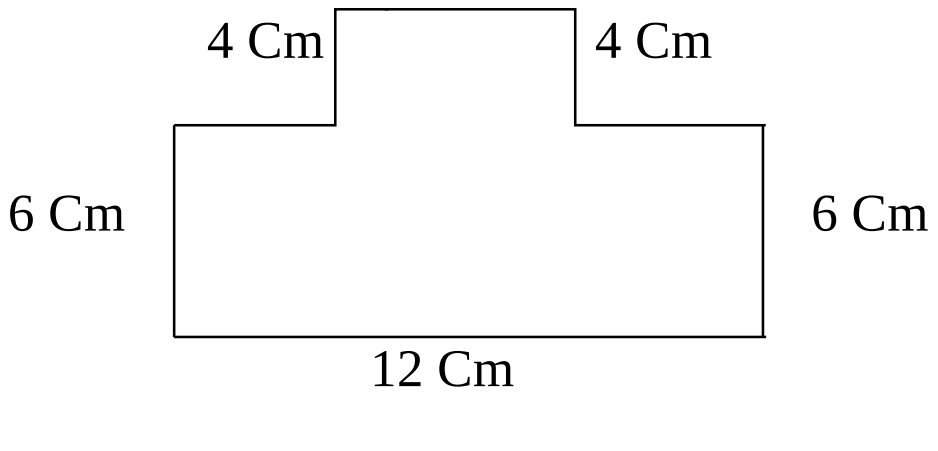

1. 32Cm 2. 34Cm 3. 44Cm

- ක්‍රීඩාවක දී ක්‍රීඩකයන් ස්ථානගත වී ඇති අයුරු අක්ෂර මගින් දක්වා ඇත. 20, 21 ප්‍රශ්නවලට ඒ ඇසුරින් පිළිතුරු තෝරන්න.

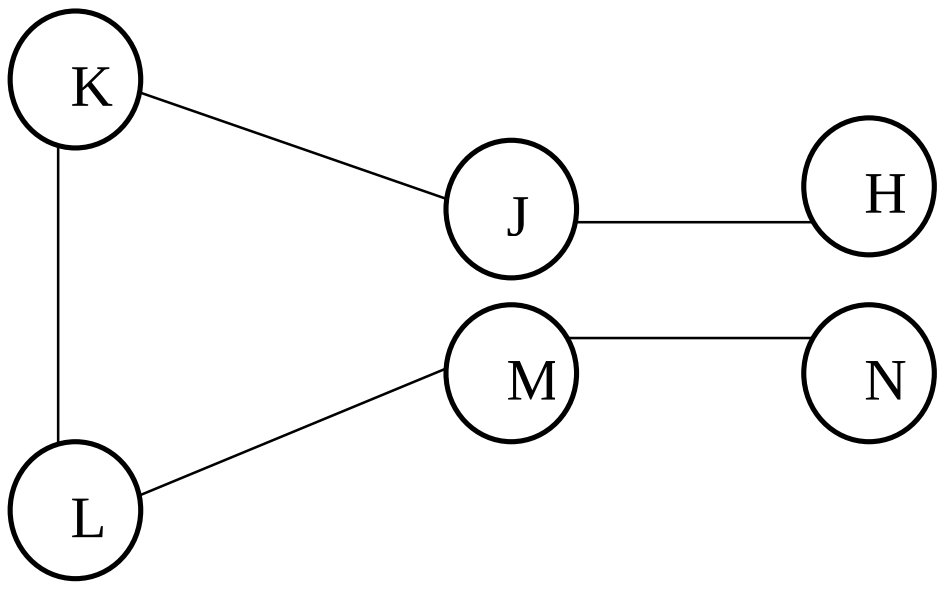

20. J විසින් බෝලය විසි කළේ වයඹ දිශාවට නම් බෝලය අල්ලා ගන්නා ලද්දේ කවුද ?

1. H 2. L 3. K

21. L අත තිබූ පන්දුව M වෙත විසි කළේ නම් එය විසි කළ දිශාව කුමක් ද ?

1. උතුරු දිශාව 2. නැගෙනහිර දිශාව 3. ඊසාන දිශාව

22. *"විහඟ කැලක් - රුක් ගොමුවක්*
දිය දහරක් - සොඳුරු තැනක් "

මෙම කවියෙන් කියැවෙන්නේ,

1. ගොවිපළක් ගැන ය. 2. මුහුදු වෙරළක් ගැන ය.
3. ලස්සන වනයක් ගැන ය.

23. තාත්තා ළඟ තිබූ මුදලින් $\frac{1}{4}$ කෑම සඳහා වියදම් කර ඉතිරියෙන් $\frac{1}{2}$ මතු ප්‍රයෝජනය සඳහා තබා ගන්නා ලදී. කෑම සඳහා වියදම් කළ මුදල රුපියල් 1 200.00 කි. එසේ නම් පියා ළඟ මුලින් තිබූ මුදල කීයද ?

1. රුපියල් 4 800.00 කි 2 රුපියල් 4 000.00 කි 3. රුපියල් 2 400.00 කි

24.

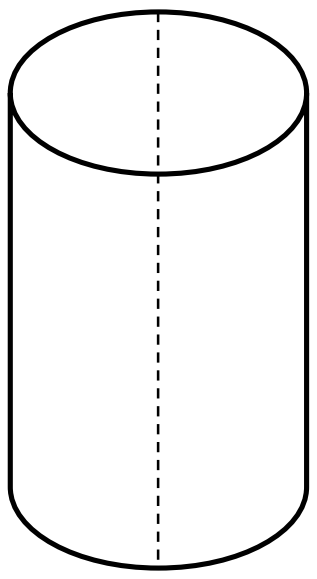

ඉහත දක්වා ඇත්තේ සිලින්ඩරයකි. එය කඩ ඉරි දිගේ වෙන් කළහොත් ලැබෙන පෘෂ්ඨයේ හැඩය වනුයේ ,

1. සෘජුකෝණාස්‍රයකි. 2. වෘත්තයකි. 3. සමචතුරස්‍රයකි.

25. හඳුන්කූරක් මිනිත්තු 15ක් දැල් වී තිබේ. කසුන් එකවර හඳුන්කූරු 3ක් ප.ව. 6.00ට දැල්වීය. ඒවා නිවුණු වේලාව වනුයේ,

1. ප.ව. 6.45 2. ප.ව. 6.15 3. ප.ව. 6.30

26. ඔරලෝසු මුහුණතේ දැක්වෙන්නේ පස්වරු වේලාවකි. එය සම්මත ආකාරයට දැක් වූ විට,

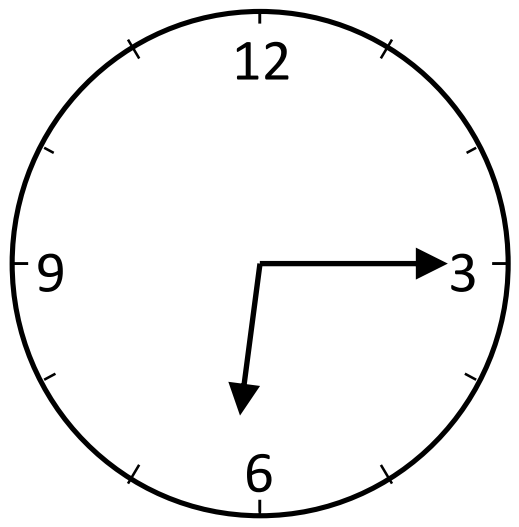

1. පැය 06:15
2. පැය 18:15
3. පැය 6:15

27. චාමර පිරිමි ළමයෙකි. ඔහුගේ අක්කාට සහෝදරියෝ තිදෙනෙක් ද සහෝදරයෝ දෙදෙනෙක් ද සිටිති. චාමරට සහෝදරියෝ කී දෙනෙක් සිටිත් ද?

1. 4 2. 3 3. 2

28. එකතුව 1300 ලැබෙන පිළිතුර තෝරන්න.

1. 350 + 250 + 150 + 300
2. 450 + 250 + 300 + 200
3. 450 + 350 + 400 + 100

29.

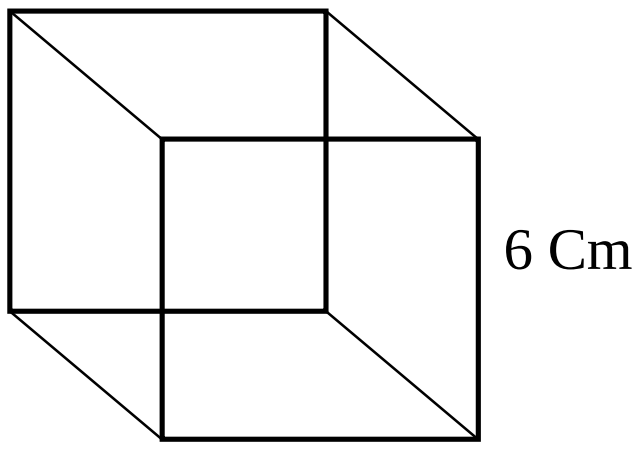

රූපයේ දැක්වෙන ඝනකයේ පැත්තක දිග 6 cm නම් මෙහි 2 cm බැගින් වූ කුඩා ඝණක කීයක් සාදාගත හැකි ද?

1. 21 2. 27 3. 35

- ශිෂ්‍යයන් අටදෙනෙකු ක්‍රිකට්, එල්ලේ සහ පාපන්දු යන ක්‍රීඩාවල නිරත වන ආකාරය රූපයේ දක්වා ඇත. රූපය ඇසුරෙන් අංක 30 සහ 31 ප්‍රශ්න සඳහා පිළිතුරු සපයන්න.

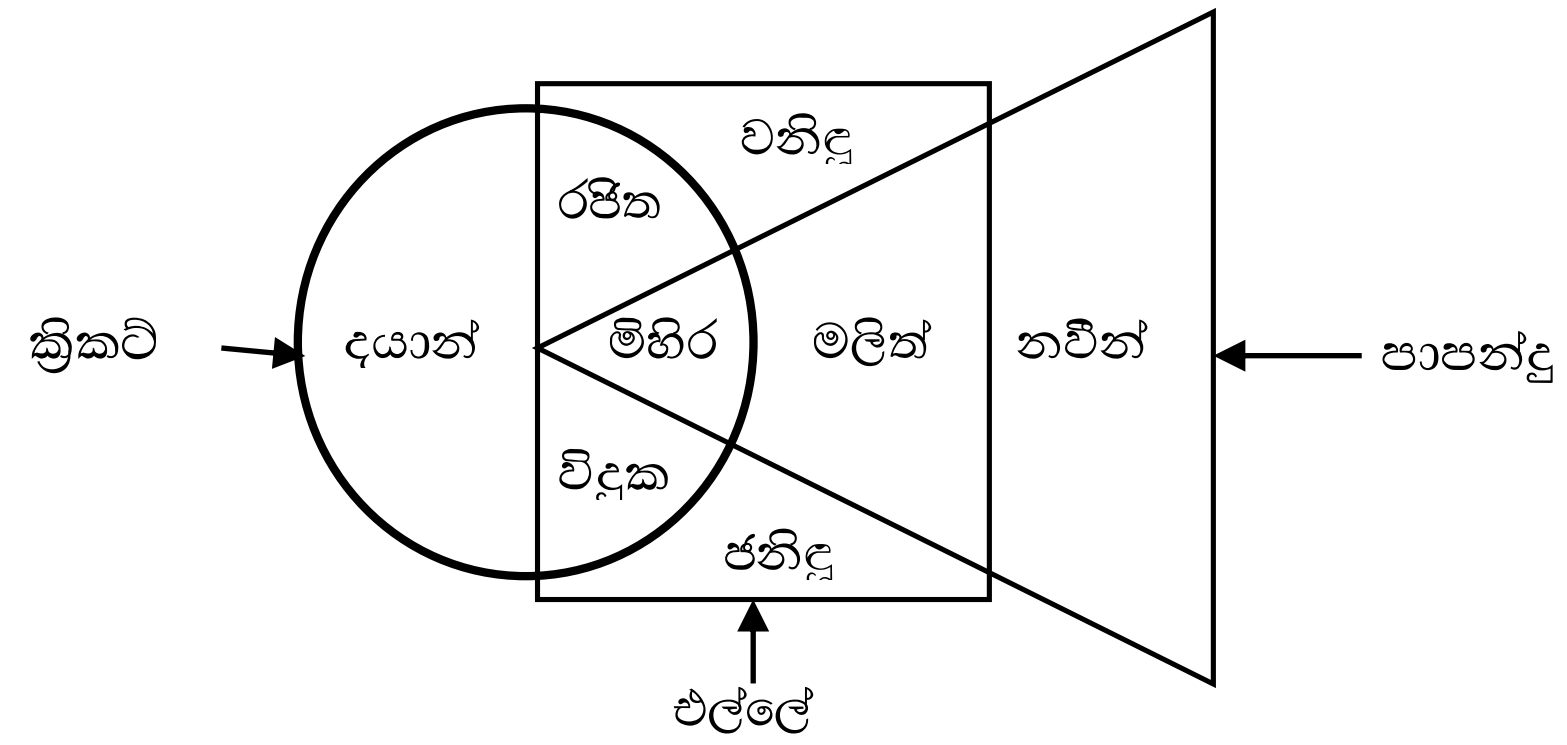

30. ක්‍රීඩාවන් තුනෙහි ම යෙදෙන ශිෂ්‍යයා කවු ද?

1. විදූක 2. වනිඳු 3. මිහිර

31. ක්‍රීඩාවන් දෙකක පමණක් යෙදෙන ශිෂ්‍යයන් කවුරුන් ද?

1. දයාන්, මලිත්, නවීන්
2. වනිඳු, ජනිඳු, මලිත්
3. රජිත, විදූක, මලිත්

32. 1 සිට 56 තෙක් ඇති සංඛ්‍යාවලින් එක ළඟ ඇති සංඛ්‍යා දෙකක් එකතු කළ විට,

1. ඉරට්ටේ සංඛ්‍යාවක් ලැබේ.
2. ඔත්තේ සංඛ්‍යාවක් ලැබේ.
3. ඉරට්ටේ හෝ ඔත්තේ හෝ සංඛ්‍යාවක් ලැබේ.

33. එක්තරා පාසලක උත්සවයක් ආරම්භයේ දී ඉටිපන්දම් දැල්වූයේ එක් ඉටිපන්දමක් නිවී මිනිත්තු පහකට පසු අනෙක් ඉටිපන්දම නිවී යන ආකාරයට ය. පළමු ඉටිපන්දම නිවී ගියේ පෙ.ව. 9.35 ට නම් 10 වන ඉටිපන්දම නිවී ගියේ කුමන වේලාවේ ද?

1. පෙ.ව. 10.35 ට 2. පෙ.ව. 10.25 ට 3. පෙ.ව. 10.30 ට

34. 1976 වර්ෂය අයත් වන්නේ කුමන සියවසේ කුමන දශකයට ද?

1. 19 වන සියවසේ 8 වන දශකයේ ය.
2. 20 වන සියවසේ 7 වන දශකයේ ය.
3. 20 වන සියවසේ 8 වන දශකයේ ය.

35. 2005.10.03 දින ශ්‍රී ලංකාවේ උපත ලැබූ අයකු 2022.07.01 දිනය වන විට සූර්යයා වටා ගමන් කර ඇති සම්පූර්ණ වට ගණන කීය ද?

1. 10   2. 16   3. 17

36. කම්බි කණු දෙකක් අතර මල්පෝච්චි තුනක් තබා ඇත. වටේ ඇති කම්බි කණු ගණන 16කි. එසේ නම් තබා ඇති මල්පෝච්චි ගණන කීය ද?

1. 45 කි.   2. 48 කි.   3. 44 කි.

- වැලක ඇති බල්බ පිළිබඳ තොරතුරු සංකේත මගින් දක්වා ඇත්තේ මෙසේ ය. ඒ ඇසුරෙන් අංක 37 සහ 38 ප්‍රශ්නවලට පිළිතුරු තෝරන්න.

අඩු → වැඩි
වැඩි ← අඩු

සුදු → රතු

නිල් → කහ

සුදු ← කහ

37. වැලේ වැඩිපුර ම ඇත්තේ කුමන පාට බල්බ ද?

1. කහ   2. රතු   3. නිල්

38. අඩු ප්‍රමාණයේ සිට වැඩි ප්‍රමාණය දක්වා බල්බ වැලේ ඇති බල්බ ප්‍රමාණය වනුයේ ,

1. රතු, සුදු, කහ, නිල්   2. රතු, නිල්, කහ, සුදු   3. නිල්, කහ, සුදු, රතු

39. ගොවිපළක සිටින එළුවන්ගේ පාද ගණන හා අං ගණනෙහි එකතුව 72 කි. ගොවිපළෙහි සිටින එළුවන් ගණන කීය ද?

1. 13 කි.   2. 12 කි.   3. 14 කි.

40. පුද්ගලයෙක් A ස්ථානයේ සිට B ස්ථානයට ගිය විට ඔහු වමට හැරුණු වාර ගණන කීය ද?

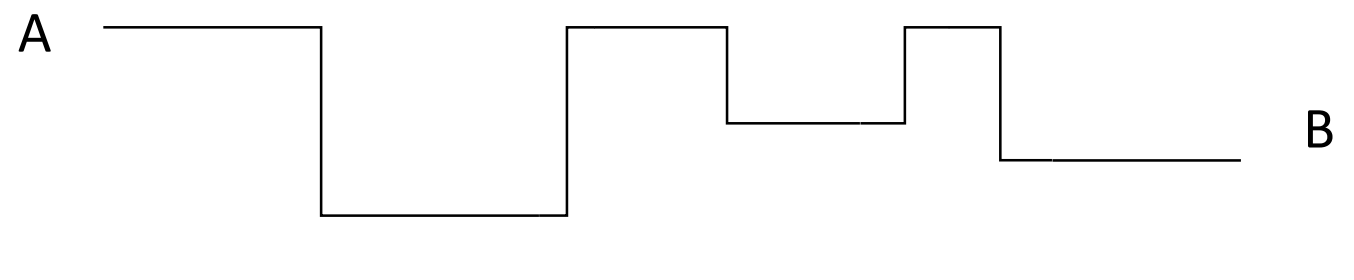

1. 5   2. 4   3. 6